自転車ドリル③

＜上　級　編＞

年　　組

名前

／5

下の問題を読み、正しいものに○、間違(まちが)っているものに×をつけましょう。

①路側帯(ろそくたい)（白い線）の中であれば、右側も走ることができる。

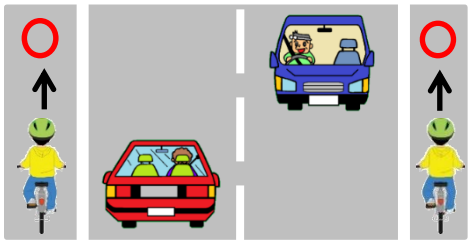

答え＿＿＿＿＿＿

②横断歩道(おうだんほどう)を横断するときに、歩行者が横断していたが、乗ったまま通った。



答え＿＿＿＿＿＿

③自転車に乗るときは、必ず右の図のＴＳマークなどの自転車保険(ほけん)に必ず加入しなければならない。

＜ＴＳマーク＞

答え＿＿＿＿＿＿

④自動車には、死角というしくみがあることを知っておかなければならない。

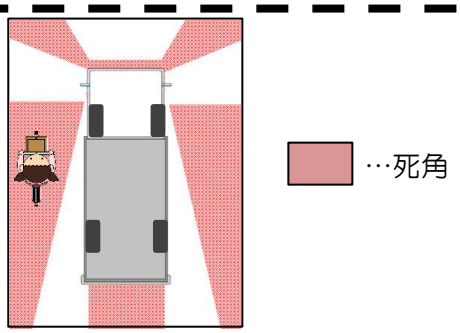

答え＿＿＿＿＿＿

⑤自動車は右折・左折をするときに前輪(ぜんりん)が通ったところよりも後輪(こうりん)は外側を通る。



答え＿＿＿＿＿＿